Централизованное тестирование по географии, 2012

При выполнении заданий с кратким ответом впишите в поле для ответа цифру, которая соответствует номеру правильного ответа, или число, слово, последовательность букв (слов) или цифр. Ответ следует записывать без пробелов и каких-либо дополнительных символов.

В заданиях, где нужно установить соответствие между двумя столбцами, ответ запишите в виде сочетания букв и цифр, соблюдая алфавитную последовательность букв левого столбца. Некоторые данные правого столбца могут использоваться несколько раз или не использоваться вообще. Например: А1Б1В4Г2.

Если вариант задан учителем, вы можете вписать или загрузить в систему ответы к заданиям с развернутым ответом. Учитель увидит результаты выполнения заданий с кратким ответом и сможет оценить загруженные ответы к заданиям с развернутым ответом. Выставленные учителем баллы отобразятся в вашей статистике.

1. Основоположником учения о центрах происхождения культурных растений является:

1) А. Л. Смолим 2) Ф. Ф. Беллинсгаузен 3) Н. И. Вавилов 4) С. Дежнев

2.
На карте точка 1 расположена:

1) в Западном полушарии
2) в Северном полушарии
3) между 40° и 60° восточной долготы
4) к югу от Южного тропика

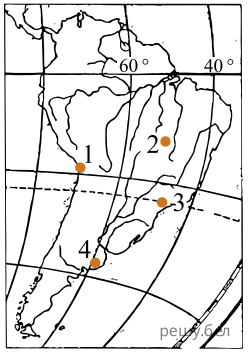

Карта составлена по состоянию на 01.01.2012

3. Укажите форму рельефа, приуроченную к области кайнозойской складчатости:

1) Лаврентийская возвышенность 2) горы Анды 3) Скандинавские горы
4) Минская возвышенность

4. Направлению ветра, обозначенному на рисунке цифрой 2, соответствует направление:

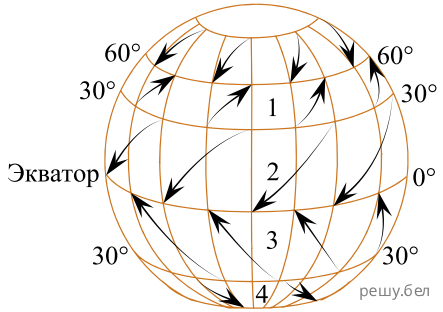

1) западных ветров Северного полушария 2) пассатов Северного полушария
3) пассатов Южного полушария 4) западных ветров Южного полушария

5. Для Тихого океана характерно(-ен):

1) отсутствие коралловых островов 2) самая большая среди океанов высота приливов
3) максимальная глубина в западной части
4) наименее сложный среди океанов рельеф дна

6. Для природной зоны лесостепей и степей умеренного пояса характерно:

1) выпадение более 500 мм осадков в год 2) холодное (не выше +8 °С) лето
3) формирование зональных красных ферраллитных почв
4) обитание типичных животных — хорьков, мышей-полевок

7. Укажите государства с низкой средней продолжительностью жизни населения:

1) Австралийский Союз, США 2) Афганистан, Чад 3) Франция, Дания
4) Великобритания, Япония

8. Укажите суверенное государство и зависимую (несамоуправляемую) территорию:

1) Китай, Греция 2) Польша, Марокко 3) Беларусь, Гибралтар
4) Италия, Португалия

9. Укажите государства, являющиеся членами Ассоциации государств Юго-Восточной Азии (АСЕАН):

1) Индонезия, Монголия 2) Малайзия, Китай 3) Индонезия, Филиппины
4) Вьетнам, Япония

10. География черной металлургии мира характеризуется:

1) основными транспортными потоками железной руды в Южную Америку
2) ростом международной торговли железным ломом
3) отсутствием твердых и газообразных отходов при производстве чугуна
4) размещением производств исключительно вблизи сырьевой базы

11. Для географии сельского хозяйства мира характерно:

1) лидерство Индонезии по производству хлопка-волокна
2) выращивание какао-бобов преимущественно в умеренных широтах
3) отсутствие свиноводства в районах выращивания зерновых культур
4) развитие тонкорунного овцеводства преимущественно в засушливых районах умеренного пояса

12. Для территории Антарктиды характерна(-о, -ен):

1) наибольшая среди материков средняя высота нал уровнем моря с учетом ледникового покрова
2) увеличение континентальное™ климата от центральной части к побережьям
3) формирование летом во внутренних районах области низкого атмосферного давления
4) преимущественно горный подледный рельеф в восточной части

13.
На карте река Нигер обозначена цифрой:

1) 1 2) 2 3) 3 4) 4

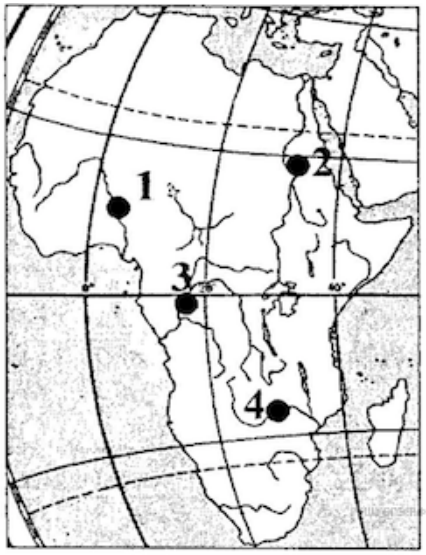

Карта составлена по состоянию на 01.01.2012

14. Социальное и экономическое развитие Африки характеризуется:

1) низким естественным приростом населения в Чаде
2) преобладанием численности сельского населения над городским
3) высоким уровнем механизации в растениеводстве
4) отсутствием на территории трансконтинентальных транспортных магистралей

15. Для территории материка Австралия характерно(-а):

1) расположение большей части в экваториальном климатическом поясе
2) приуроченность западной части к области кайнозойской складчатости
3) господство тропической воздушной массы летом в субэкваториальном климатическом поясе
4) распространение во внутренних частях природной зоны полупустынь и пустынь

16. Для социального и экономического развития Австралийского Союза характерен(-но -на):

1) высокий удельный вес англо-австралийцев в этническом составе населения
2) отсутствие собственных сырьевых ресурсов для развития цветной металлургии
3) пригодность большей части территории для развития земледелия
4) ведущая роль воздушного транспорта во внешних грузоперевозках

17. Для территории Южной Америки характерна(-о):

1) приуроченность восточной части к древней платформе
2) влажная зима в субэкваториальном климатическом поясе
3) влияние Перуанского течения на климат восточного побережья
4) распространение природной зоны смешанных и широколиственных лесов на севере

18. Для социального и экономического развития Южной Америки характерно(-а):

1) отсутствие зависимых территорий
2) отсутствие судостроения в отраслевой структуре транспортного машиностроения
3) специализация горнодобывающей промышленности на добыче медной руды в Чили
4) ведущая роль животноводства в отраслевой структуре сельского хозяйства

19. Общим для социального и экономического развития Венесуэлы и Аргентины является:

1) монархическая форма государственного правления
2) низкая плотность населения на побережье
3) наличие на территории городских агломераций
4) наибольший в регионе объем производства зерновых культур

20. Для природы Северной Америки характерно:

1) широкое распространение карстовых форм рельефа на Лаврентийской возвышенности
2) влияние муссонов на климат юго-западного побережья
3) отсутствие области бассейна внутреннего стока
4) формирование дерново-подзолистых почв под растительностью смешанных и широколиственных лесов

21.

На карте река Колорадо обозначена цифрой:

1) 1 2) 2 3) 3 4) 4

Карта составлена по состоянию на 01.01.2012

22. Общим для социального и экономического развития Мексики и Канады является:

1) низкий уровень рождаемости населения
2) федеративная форма государственного устройства
3) производство большей части электроэнергии на ГЭС
4) ведущая роль растениеводства в отраслевой структуре сельского хозяйства

23. Пустыня, расположенная на территории Евразии, — это:

1) Калахари 2) Каракумы 3) Атакама 4) Большая Песчаная

24. Для социального и экономического развития стран Южной Европы характерен(-но):

1) высокий естественный прирост населения
2) равномерное размещение населения по территории региона
3) высокий уровень обеспеченности Греции собственными топливно-энергетическими ресурсами
4) развитие в Италии промышленности строительных материалов преимущественно на собственном сырье

25. Ответ: Для социального и экономического развития Украины НЕ ЯВЛЯЕТСЯ характерным(-ой):

1) высокий удельный вес сельского населения в общей численности
2) специализация химической промышленности на производстве минеральных удобрений

3) ведущая роль ТЭС в структуре производства электроэнергии
4) наличие на территории системы магистральных нефте- и газопроводов

26. Река Тигр относится к бассейну океана:

1) Северного Ледовитого 2) Индийского 3) Тихого 4) Атлантического

27. Ответ: Для социального и экономического развития Японии в ОТЛИЧИЕ от Китая характерен(-но, -на):

1) низкий уровень рождаемости населения
2) наличие производств по выпуску химических волокон
3) выращивание риса в качестве основной продовольственной культуры
4) ведущая роль морского транспорта в международных перевозках

28. Для территории России характерно(-ен):

1) широкое распространение вулканических форм рельефа в европейской части
2) господство пассатной циркуляции воздушных масс в восточной части
3) высокий уровень воды на реке Амур летом
4) формирование подзолистых почв в природной зоне полупустынь и пустынь

29. Для социального и экономического развития России НЕ ЯВЛЯЕТСЯ характерным:

1) высокий естественный прирост населения
2) развитие цветной металлургии преимущественно на собственном сырье
3) производство основной части электроэнергии на ТЭС
4) развитие свиноводства как одной из отраслей животноводства

30. Для географического положения территории Беларуси характерно(-ен, -а):

1) размещение в пределах Валдайской возвышенности
2) непосредственный выход к Северному морю
3) местонахождение крайнего западного пункта на 25° 10' западной долготы
4) наибольшая протяженность участка государственной границы с Россией

31.

На карте Латвийская седловина обозначена цифрой:

1) 1 2) 2 3) 3 4) 4

Карта составлена по состоянию на 01.01.2012

32. Определите НЕВЕРНОЕ утверждение:

1) на территории Беларуси преобладает западный перенос воздушных масс
2) территория Беларуси относится к зоне достаточного увлажнения
3) арктические воздушные массы зимой приносят оттепель на территорию Беларуси
4) годовая амплитуда температур воздуха на территории Беларуси увеличивается с запада на восток

33. Какое из названных водохранилищ или озер расположено ближе к озеру Освейскому?

1) Любанское водохранилище 2) озеро Нарочь 3) Чигиринское водохранилище 4) озеро Балхаш

34. Для географии населения Беларуси характерно:

1) ведущее место сельских поселений в системе расселения
2) наличие на территории нескольких крупных городских агломераций
3) увеличение доли пожилых людей в возрастной структуре
4) численное преобладание протестантов над представителями других конфессий

35. Для промышленности Беларуси характерно(-а):

1) наличие на территории нескольких центров по производству лакокрасочных изделий
2) размещение станкостроительных предприятий преимущественно в малых городах
3) отсутствие на территории предприятий по производству электронной медицинской техники
4) специализация топливной промышленности на добыче угля

36. Для сельского хозяйства Беларуси характерен(-но):

1) низкий удельный вес производства картофеля на душу населения
2) отсутствие гречихи среди посевов зерновых культур
3) высокий удельный вес баранины в структуре производства мяса
4) развитие коневодства преимущественно племенного и спортивного направлений

37. В Беларуси речным портом на реке Припять является город:

1) Гомель 2) Могилев 3) Бобруйск 4) Мозырь

38. Для социального и экономического развития Брестской области характерно(-ен):

1) наличие на территории нескольких крупных по численности населения городов
2) ведущая роль нефтехимии в отраслевой структуре обрабатывающей промышленности
3) наибольший объем производства электроэнергии среди административных областей
4) ведущая роль овцеводства в отраслевой структуре животноводства

39. Установите соответствие между географическими объектами и их местонахождением, обозначенным на карте цифрой, и разместите последовательно в направлении с запада на восток от нулевого (Гринвичского) меридиана.

Карта составлена по состоянию на 01.01.2012

А) Аравийский полуостров	1) 1
Б) Мексиканское нагорье	2) 2
В) Среднесибирское плоскогорье	3) 3
Г) Казахский мелкосопочник	4) 4

Ответ запишите в виде сочетания букв и цифр, не соблюдая алфавитную последовательность букв левого столбца. Например: В3Г2А1Б4.

40. Видами выветривания являются: физическое, биологическое (органическое) и ...

Ответ запишите словом (сочетанием слов).

41. На рисунке по розе ветров преобладающим является ... направление ветра.

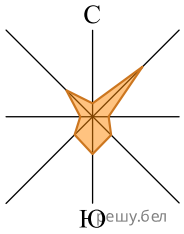

Ответ запишите словом (сочетанием слов).

42. Установите соответствие.

ХАРАКТЕРИСТИКА ГОСУДАРСТВА

А) унитарная республика, входящая в состав Европейского союза (ЕС)
Б) федеративная республика, которая является крупнейшим по численности населения государством материка
В) федеративное государство в составе Содружества, возглавляемого Великобританией
Г) унитарная республика, входящая в состав Содружества Независимых Государств (СНГ)

ГОСУДАРСТВО

1) Украина
2) Канада
3) Аргентина
4) Польша
5) Бразилия

Ответ запишите в виде сочетания букв и цифр, соблюдая алфавитную последовательность букв левого столбца. Не все данные правого столбца могут быть при этом использованы. Например: А3Б4В1Г2.

43. Крупнейшее по площади территории государство материка, большая часть населения которого сосредоточена в южной приграничной полосе входит в тройку мировых лидеров по площади лесов, имеет сухопутную границу с одним государством. Это — ...

Запишите название государства. Например: Великобритания.

44. Часть территории Евразии, для которой характерны жаркое (около +32 °С) и очень сухое лето, жаркая (до +24 °С) и сухая зима, общее годовое количество осадков менее 250 мм, расположена в климатическом поясе (климатической области), который(-ая) на карте обозначен(-а) цифрой ...

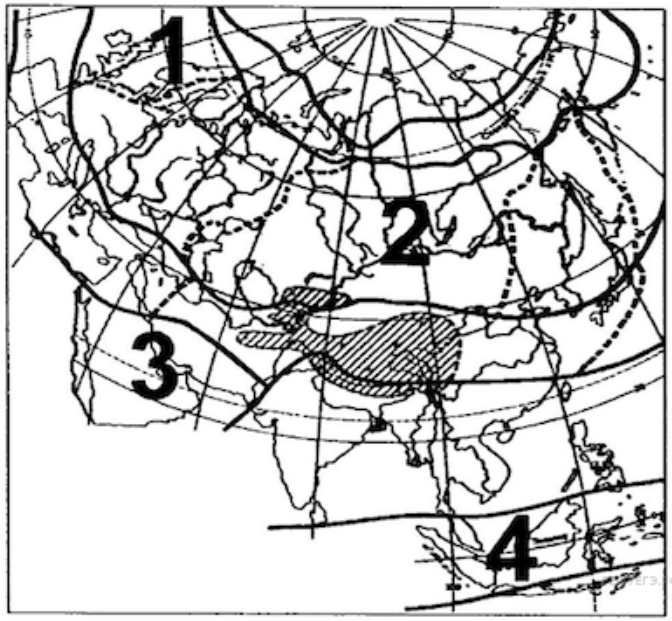

Карта составлена по состоянию на 01.01.2012

45. Установите соответствие.

ПОЛУШАРИЕ	МЫСЫ
А) Северное	1) Мерчисон, Йорк
Б) Южное	2) Мерчисон, Принца Уэльского
	3) Принца Уэльского, Париньяс
	4) Йорк, Париньяс

Ответ запишите в виде сочетания букв и цифр, соблюдая алфавитную последовательность букв левого столбца. Не все данные правого столбца могут быть при этом использованы. Например: А3Б1.

46.
На карте река Неман обозначена цифрой ...

Карта составлена по состоянию на 01.01.2012

47. Установите соответствие.

ПРОДУКЦИЯ	ЦЕНТР ПРОИЗВОДСТВА
А) спички	1) Витебск
Б) ковры	2) Борисов
В) сахар	3) Гродно
Г) магистральные автопоезда	4) Минск
	5) Жабинка

Ответ запишите в виде сочетания букв и цифр, соблюдая алфавитную последовательность букв левого столбца. Не все данные правого столбца могут быть при этом использованы. Например: А5Б4В1Г2.

48. Установите соответствие.

АДМИНИСТРАТИВНЫЙ РАЙОН	АДМИНИСТРАТИВНАЯ ОБЛАСТЬ
А) Барановичский	1) Могилевская
Б) Глубокский	2) Минская
В) Кричевский	3) Гомельская
Г) Воложинский	4) Брестская
	5) Витебская

Ответ запишите в виде сочетания букв и цифр, соблюдая алфавитную последовательность букв левого столбца. Не все данные правого столбца могут быть при этом использованы. Например: А1Б3В2Г4.

49. Расстояние между станциями *A* и *B* на карте в масштабе 1 : 350 000 равно 50 см, расстояние между станциями *C* и *O* на карте в масштабе 1 : 1 100 000 равно 13 см. На сколько километров расстояние между станциями *A* и *B* больше, чем расстояние между станциями *C* и *D*?

Ответ запишите в виде целого числа. Например: 89.

50. Вычислите суточную амплитуду температуры воздуха.

Время, ч	**Температура воздуха, °C**
8	+14
14	+6
20	0

Ответ запишите в виде целого числа. Например 10.